時計クイズ １９



【問１・２】次の時計は**何時何分**ですか。下の答えに記入して下さい。

※「ちょうど」の場合も、分は**「00分」**と書きましょう。

1

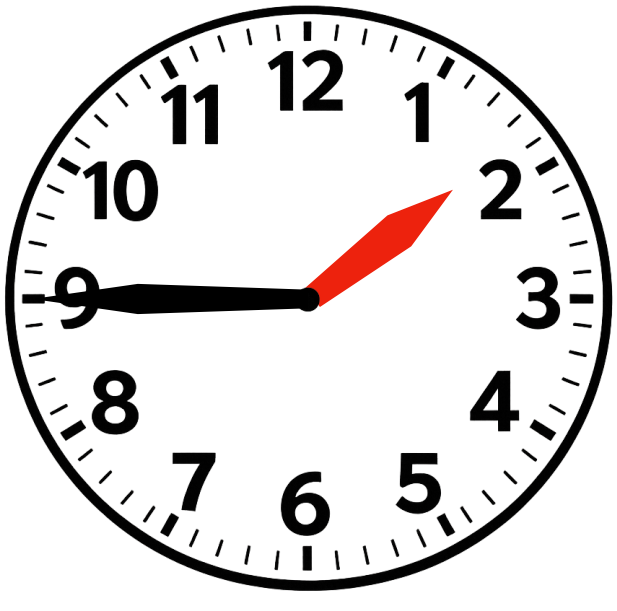

答え　　時　　分

2



答え　　時　　分

【問３】次の時計の時刻から、**25分後**は何時何分ですか。

3

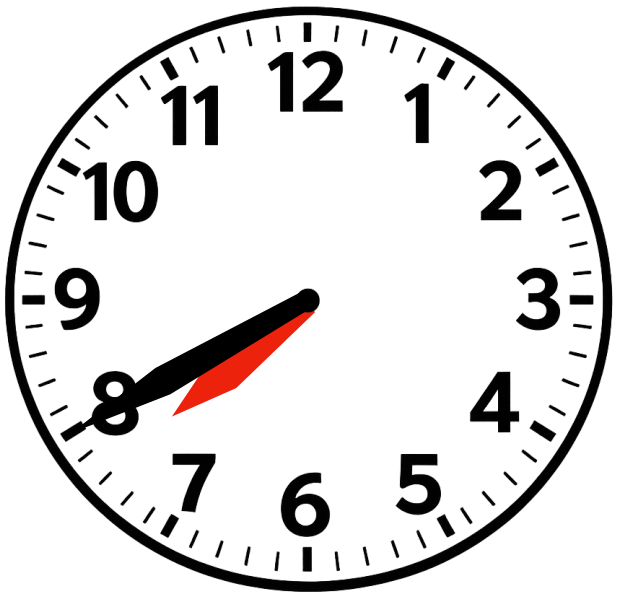

答え　　時　　分

【問４】次の時計の時刻から、**15分前**は何時何分ですか。

4

答え　　時　　分

【答案】「：」　午後4時8：5　午後0時8：3　午後2時2：4

↑【解答】は上下を反転させています

笑顔生き生き応援隊
ドングリマツリ
https://kawaguchi-website.jp